DO NOT OPEN THE SEAL OF THE BOOKLET UNTIL YOU ARE TOLD TO DO SO

EXAM ID. - 6507

UPSSSC VDO

TEST SERIES

DATE –__ /__ /__

DAY -

INSTRUCTION FOR CANDIDATE

उम्मीदवारों के लिए अनुदेश

TEST SERIES NO.

A – 101

QUESTION – 150 MARKS – 300 NEGATIVE MARK – 1 DURATION –120 MIN.

1. केवल काले या नीले रंग की स्याही वाले बॉल पेन का ही उपयोग करें

2. परीक्षा प्रारंभ होते ही आप इस प्रश्न पुस्तिका की जाँच अवश्य कर ले तथा यदि इसमें कोई बिना छपा कटा-फटा या आंशिक छपा हुआ पृष्ठ अथवा प्रश्न हो, तो इसे अभिजागर के माध्यम से सही प्रश्न पुस्तिका से बदल लीजिए।

3. इस प्रश्न पुस्तिका में कुल 150 प्रश्न हैं।

4. यह एक वस्तुनिष्ठ परीक्षा है, जिसमें प्रत्येक प्रश्न के उत्तर के लिए चार विकल्प दिए गए है, आपको इन चार विकल्पों में से सही उत्तर वाले एक ही विकल्प को चुनना है।

5. सभी प्रश्नों के उत्तर अलग अलग से दिए गए उत्तर-पत्रक पर ही अंकित करने है।

6. उत्तर-पत्रक को भरने हेतु निर्देश उत्तर-पत्रक के पृष्ठ भाग पर अंकित है, जिन्हें उत्तर-पत्रक को भरने से पूर्व ध्यान से पढ़ ले।

7. परीक्षा समाप्त होने से पूर्व परीक्षार्थी कक्ष से बाहर नहीं जा सकते हैं।

8. परीक्षा समाप्त होने के पश्चात् आप उत्तर-पत्रक की ORIGINAL COPY को अभिजागर के पास जमा कराकर उनकी अनुमति से बाहर जा सकते हैं।

9. परीक्षा समाप्त होने पर प्रश्न पुस्तिका एवं उत्तर-पत्रक की Candidate's Copy को अपने साथ ले जाने की अनुमति हैं।

10. प्रत्येक सही उत्तर पर 2 अंक प्राप्त होगा तथा प्रत्येक गलत उत्तर पर 1 अंक काटा जाएगा।

WIFI PUBLICATION
POWERD BY TIME4LEARNING

YOUR BRAND LOGO HERE

YOUR INSTITUTE NAME

Address- Your coaching institute full address

Helpline :- 7737404085, 8209244090

1. आंजनेय' शब्द में प्रयुक्त प्रत्यय है:
a) एय b) य
c) नेय d) ऐय

2. नृत्य' का तद्रव रूप कौन-सा होगा?
a) नृत b) नाच
c) नचाना d) नाचना

3. 'तुमने गाया होगा' इस वाक्य में कौन-सा काल है?
a) संदिग्ध भूत b) संभाव्य भविष्य
c) अपूर्ण भूत d) सामान्य भविष्य

4. वाक्य के कितने प्रकार है?
a) तीन b) चार
c) एक d) कोई प्रकार नहीं

5. आँख नीची होना' मुहावरे का क्या अर्थ है?
a) लज्जित होना b) सामने न आना
c) नीची आँख से देखना d) कहीं दूर चले जाना

6. लेखक और उसकी रचना का कौन-सा जोड़ा गलत है?
a) संस्कृति के चार अध्याय - रामधारी सिंह 'दिनकर' b) रसज्ञ-रंजन - आचार्य महावीर प्रसाद द्विवेदी
c) स्कन्दगुप्त - लक्ष्मीनारायण मिश्र d) अशोक के फूल - आचार्य हजारी प्रसाद द्विवेदी

7. "राजा की सभा = राजसभा" में कौन-सा समास है?
a) बहुव्रीहि समास b) अव्ययीभाव समास
c) तत्पुरुष समास d) द्वन्द्व समास

8. शब्दों के शुद्ध रूप का चयन कीजिए।
a) धन्यवाद b) धन्यआवाद
c) धन्यावाद d) ध्नयवाद

9. इनमें से भाववाचक संज्ञा है:
a) सत्य b) शेर
c) वाराणसी d) पुस्तक

10. पुलिस के आने से पहले ही चोर भाग चुके थे।' यह वाक्य किस काल का है?
a) सामान्य भूतकाल b) आसन्न भूतकाल
c) पूर्ण भूतकाल d) अपूर्ण भूतकाल

11. निम्नलिखित वाक्य का हिन्दी में अनुवाद कीजिये- They trooped out of room.
a) वे सब एक साथ कमरे से निकले b) हम सब एक साथ बाहर आये
c) सभी एक साथ बाहर आये d) सब कमरे से निकले

12. निर्देश: दिए गए वाक्य के लिए एक शब्द का चयन कीजिए।
'जो परिणय सूत्र में न बँधा हो'
a) अज्ञ b) अभियोगी
c) सद्यःपरिणीत d) अपरिणीत

13. "तन्मात्रा" शब्द का सही संधि विच्छेद क्या है ?
a) तत् + मात्रा b) तन् + मात्रा
c) तम् + मात्रा d) तप् + मात्रा

14. नीचे दिए गए शब्द का सही बहुवचन रूप वाला विकल्प पहचानिए-
'दूध'
a) दूध b) दूधिया
c) दूधियाँ d) इनमें से कोई नहीं

15. (15 – 18) निर्देश: निम्नलिखित गद्यांश को पढ़कर पूछे गए प्रश्नों के सही उत्तर लिखिए।
भारतेंदुजी के जीवन का उद्देश्य अपने देश की उन्नति के मार्ग को साफ़-सुथरा और लम्बा-चौड़ा बनाना था उन्होंने इसके काँटो और कंकडों को दूर किया। उसके दोनों ओर सुन्दर क्यारियाँ बनाकर उसमें मनोरम फल-फूलों के वृक्ष लगाए। इस प्रकार उसे सुरम्य बना दिया कि भारतवासी उस पर आनन्दपूर्वक चलकर अपनी उन्नति के इष्ट स्थान तक पहुँच सकें। यद्यपि भारतेंदुजी ने अपने लगाए हुए वृक्षों को फल-फूलों से लदा नहीं देखा फिर भी यह कहने में किसी प्रकार का संकोच नहीं होगा कि वे जीवन के उद्देश्य में पूर्णतया सफल हुए। हिन्दी भाषा और साहित्य में जो उन्नति आज दिखाई पड़ रही है उसके मूल कारण भारतेंदुजी हैं और उन्हें ही इस उन्नति के बीज को रोपित करने का श्रेय प्राप्त है।
" इस प्रकार उसे सुरम्य बना दिया कि ....." उपर्युक्त पंक्ति के अनुसार भारतेन्दु जी ने किसे सुरम्य बना दिया था?
a) भारतवासियों के उन्नति के मार्ग को b) भारतवासी के आनन्द को
c) हिन्दी भाषा एवं साहित्य के मार्ग को d) स्वयं के जीवन के उददेश्य को

16. भारतेन्दु जी ने अपने जीवन में क्या किया?
a) फल - फूलों के वृक्ष लगाए b) हिन्दी भाषा एवं साहित्य की उन्नति के बीज बोए
c) रास्तों को सुंदर बनाया d) भारतीयों को आनन्द प्रदान करने का प्रयास किया

17. भारतेंदुजी के जीवन का उद्देश्य था:
a) देश का विकास करना b) मार्गों को साफ़ रखना
c) हिन्दी भाषा और साहित्य की उन्नति d) भारतीय संस्कृति का विकास

18. 'काँटों और कंकड़ों' से क्या अभिप्राय है?
a) मार्ग की रुकावटें b) सुख और दुख
c) आस - पास फैली गंदगी d) मन के बुरे भाव

19. वृद्धि संधि किस संधि का भाग है?
a) स्वर संधि b) हल् संधि
c) विसर्ग संधि d) व्यजन संधि

20. कवि और उसकी रचना का कौन-सा जोड़ा सही नहीं है?
a) शिवराज भूषण - भूषण b) शब्द रसायन - देव
c) परिमल - सूर्यकांत त्रिपाठी 'निराला' d) उद्धव शतक - भारतेन्दु हरिश्चंद्र

21. निम्न वाक्य किस अव्यय से पूरा होगा:
आज धन ___ कोई नहीं पूछता।

a) के बिना b) साथ
c) तक को d) कहाँ

22. निर्देश: निम्नलिखित में से नीचे दिए गए वाक्य के लिए एक शब्द का चयन कीजिए -
ऐसी चन्द्रिका (या शोभा) जिसे देखने या समझने वाला कोई न हो |
a) अरण्य-चंद्रिका b) अरम्ब चंद्रीका
c) चंद्रीका d) अनुमोदनीय चंद्रण

23. निम्नलिखित में कौन सा वर्ण ओष्ठ्य नहीं है?
a) उ b) ब
c) ऊ d) आ

24. सर्व' की भाववाचक संज्ञा है:
a) सर्वत्र b) सर्वस्व
c) सर्वे d) सर्वो

25. "Incredible India" का मान्य हिंदी अनुवाद है-
a) अच्छा भारत b) सोने की चिड़िया
c) भारतवर्ष d) अतुल्य भारत

26. जब कोई सरकारी पत्र, कार्यालय ज्ञापन या ज्ञापन एक साथ अनेक प्रेषितियों को भेजा जा रहा हो, तब उसे क्या कहा जाता है?
a) कार्यालय आदेश b) अधिसूचना
c) अनुस्मारक d) परिपत्र

27. अनाड़ी' का तत्सम रूप कौन-सा होगा?
a) अनार्य b) अन्यत
c) अट्टालिका d) अन्यत्र

28. दिए गए शब्दों की सही वर्तनी के साथ विकल्प को चिन्हित्त करें।
a) अतीथी b) अतिथि
c) आतिथी d) अथिति

29. कर्ता के 'ने' चिह्न का प्रयोग इनमें से कहाँ होता है?
a) संदिग्ध भूत में b) सामान्य भविष्य में
c) सामान्य वर्तमान में d) सामान्य भूत में

30. विशेषण शब्द है:
a) मोटा b) दुर्बल
c) पठारी d) उपरोक्त सभी

31. हिन्दी में पूर्ण विराम चिह्न को छोड़कर शेष चिह्न किस भाषा के है?
a) संस्कृत b) अंग्रेजी
c) फारसी d) चीनी

32. निम्नलिखित में से कौन-सा शब्द 'सागर' का पर्यायवाची नहीं है?
a) अंबुधि b) रत्नाकर
c) वारीश d) निर्जर

33. निम्नलिखित में से अर्ध संवृत स्वर का उदाहरण कौन सा है?
a) ओ b) ई
c) ऐ d) ऊ

34. मोहन किताब पढता है'। यहाँ पढ़ना कौन सी क्रिया है?
a) सकर्मक b) अकर्मक
c) द्विकर्मक d) इनमे से कोई नहीं

35. किस शब्द में 'इन' प्रत्यय का प्रयोग सही नहीं हुआ है?
a) कुँजड़िन b) नागिन
c) नाईन d) ईसाइन

36. गूंगे को गुड़' मुहावरे का क्या अर्थ है?
a) अवारणीय सुख b) गूंगे के हाथ में गुड
c) गूंगे का गुण d) अवर्णनीय सुख

37. निम्नलिखित विकल्पों में से 'कृश' का विलोम शब्द चुनिए।
a) हृष्ट-पुष्ट b) कायर
c) भाव d) विरत

38. किस वाक्य में विदेशी शब्द नहीं है?
a) कटोरे में कपास रख दो। b) मोनू को चेचक हो गया है।
c) पेन से अपना नाम लिख दो। d) दारोगा जी ने बुलाया है।

39. कार्यालय आदेश किसके लिए निकाले गए आदेशों की सूचना है?
a) मंत्रालय b) संबद्ध विभाग-प्रभाग
c) अनुभव d) इनमे से कोई नहीं

40. लेखक और उसकी कृति के युग्म में कौन-सा युग्म गलत है?
a) बोल्गा से गंगा - राहुल सांकृत्यायन b) सूरज का सातवाँ घोड़ा - धर्मवीर भारती
c) आर्यों का आदि देश - डॉ सम्पूर्णानंद d) दर्शन दिग्दर्शन - रामचंद्र शुक्ल

41. 'अहा! क्या मौसम हैं।' में कौन-सा अव्यय है?
a) क्रिया-विशेषण अव्यय b) संबंधबोधक अव्यय
c) समुच्चयबोधक अव्यय d) विस्मयादिबोधक अव्यय

42. निर्देश: रिक्त स्थान को भरने के लिए उपयुक्त शब्द का चयन करें।
नेता ने बहुत ही बढ़िया _____ दिया।
a) वाद-विवाद b) प्रवचन
c) आख्यान d) भाषण

43. निम्न में निश्चयवाचक सर्वनाम कौन सा है?
a) वह b) तुम
c) आप d) मैं

44. दिए गए विकल्पों में से विधुर का स्त्रीलिंग कौन - सा है?
a) विधुराइन b) विधुरी
c) विधवा d) विधुरनी

45. मात्रा के आधार पर स्वर कितने प्रकार के होते हैं?
a) \(2\) b) \(3\)
c) \(4\) d) \(6\)

LOGO HERE

46. जलद-जलज' शब्द-युग्म का अर्थ _____ होगा।

a) बादल-कमल b) कमल-बादल
c) मोती-कमल d) कमल-मोती

47. 'पड़ोसी' का पर्यायवाची शब्द है:

a) कुटुम्ब b) कुनबा
c) बोलबाला d) प्रतिवासी

48. निर्देश: रिक्त स्थान को भरने के लिए उपयुक्त शब्द का चयन करें।
योद्धा ने बहादुरी के साथ _____ की।

a) लड़ाई b) लिखाई
c) पढ़ाई d) रुलाई

49. किस युग्म में विलोम शब्द नहीं है?

a) प्रवृत्ति – निवृत्ति b) बहिरंग - अंतरंग
c) प्रत्यक्ष - परवर्ती d) पदोन्नत – पदावनत

50. किस शब्द में तत्पुरुष समास है?

a) क्षत्रियाधम b) भला-बुरा
c) लालमणि d) बेकाम

51. Direction: Select one of the following four options that will make the second pair analogous to the first pair given as:
निर्देश : निम्नलिखित चार विकल्पों में से एक का चयन कीजिये जो दूसरी जोड़ी को दी गई पहली जोड़ी के समरूप बनाएगी:
SEDATE : ETADES :: BRIM : ?

a) MBIR b) IRMB
c) MIRB d) BIMR

52. In a code language, TEACHER is written as UIEDIIS. How will PLUMBER be written in that language?
एक कूट भाषा में, TEACHER को UIEDIIS के रूप में लिखा जाता है। उस भाषा में PLUMBER को किस प्रकार लिखा जाएगा?

a) QMVNCFS b) QMANCIS
c) QMVNCIS d) QMANCFS

53. Direction: Study the following arrangement carefully and answer the question given below.
निर्देश: निम्नलिखित व्यवस्था का ध्यानपूर्वक अध्ययन करें और नीचे दिए गए प्रश्न का उत्तर दें।
\(2, A, 9, B, 6, C, 13, D, ?\)

a) 9 b) 10
c) 12 d) 19

54. Direction: Study the following information to answer the given Questions:
Seven boxes of deodorant of different brands – AXE, Degree, Envy, Fogg, Nivea, Old spice and Park Avenue are kept one above the other, not necessarily in the same order.
The number of boxes above the box of Fogg is equal to number of boxes below the box of Envy. There is only one box above box of Degree. The box of Park Avenue is the bottom most box. The box of AXE is above box of Old spice, which is above box of Envy. Which of the following pairs does not belong to the group?
निर्देश: दिए गए प्रश्नों का उत्तर देने के लिए निम्नलिखित जानकारी का अध्ययन कीजिये:
विभिन्न ब्रांडों के डिओडोरेंट के सात बॉक्स - एक्स, डिग्री, एन्वी, फॉग, निविया, ओल्ड स्पाइस और पार्क एवेन्यू को एक के ऊपर एक रखा जाता है, जरूरी नहीं कि इसी क्रम में हों।
फॉग के बॉक्स के ऊपर के बॉक्सों की संख्या एन्वी के बॉक्स के नीचे के बॉक्सों की संख्या के बराबर है। डिग्री के बॉक्स के ऊपर केवल एक बॉक्स है। पार्क एवेन्यू का बॉक्स सबसे नीच रखा बॉक्स है। एक्स का बॉक्स, ओल्ड स्पाइस के बॉक्स के ऊपर है, जो एन्वी के बॉक्स के ऊपर है।
इनमे से कौन सा जोड़ा समूह से संबंधित नहीं है??

a) एक्स- डिग्री AXE-Degree b) एन्वी-निविया Envy-Nivea
c) फॉग-ओल्ड स्पाइस Fogg-Old Spice d) ओल्ड स्पाइस-पार्क एवेन्यू Old Spice – Park Avenue

55. E is the daughter of D whose wife is C. C who is the daughter of A whose husband is B. How is D related to B?
E, D की बेटी है जिसकी पत्नी C है। C, जो A की बेटी है जिसका पति B है। D का B से क्या संबंध है?

a) दामाद Son-in-law b) बेटा Son
c) ग्रैंडसन Grandson d) ससुर Father-in-law

56. Direction: In the following question given below consists of a statement, followed by two arguments numbered I and II. You have to decide which of the argumentsis a 'strong' argument and which is a 'weak' argument.
Statement: Should all the drugs patented and manufactured in Western countries be first tried out on sample basis before giving licence for sale to general public in India?
Arguments:
I. Yes. Many such drugs require different doses and duration for Indian population and hence it is necessary.
II. No. This is just not feasible and hence cannot be implemented.
निर्देश: नीचे दिए गए प्रश्न में एक कथन दिया गया है, जिसके बाद दो तर्क I और II दिए गए हैं। आपको तय करना है कि कौन सा तर्क 'मजबूत' तर्क है और कौन सा 'कमजोर' तर्क है।
कथन: क्या भारत में आम जनता को बिक्री के लिए लाइसेंस देने से पहले पश्चिमी देशों में पेटेंट और निर्मित सभी दवाओं का नमूना आधार पर परीक्षण किया जाना चाहिए?
तर्क:
I. हां, ऐसी कई दवाओं को भारतीय आबादी के लिए अलग-अलग खुराक और अवधि की आवश्यकता होती है और इसलिए यह आवश्यक है।
II. नहीं, यह संभव नहीं है और इसलिए इसे लागू नहीं किया जा सकता है।

a) केवल तर्क I मजबूत है Only argument I is strong b) केवल तर्क II मजबूत है Only argument II is strong

c) या तो I या II मजबूत है Either I or II is strong
d) न तो I और न ही II मजबूत है Neither I nor II is strong

57. Direction: Find the answer figure in which the question figure is embedded?
Question Figure:
निर्देश: उत्तर आकृति ज्ञात कीजिए जिसमें प्रश्न आकृति सन्निहित है?
प्रश्न आकृति:

उत्तर आकृति:

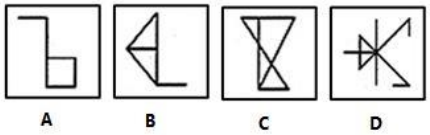

a) आकृति A Figure A
b) आकृति B Figure B
c) आकृति C Figure C
d) आकृति D Figure D

58. Direction: Dev, Kumar, Nilesh, Ankur and Pintu are standing facing to the North in a playground such as given below:
Kumar is at 40 m to the right of Ankur.
Dev is are 60 m in the south of Kumar.
Nilesh is at a distance of 25 m in the west of Ankur.
Pintu is at a distance of 90 m in the North of Dev.
Which one is in the North-East of the person who is to the left of Kumar?
निर्देश: देव, कुमार, नीलेश, अंकुर और पिंटू एक खेल के मैदान में उत्तर की ओर मुख करके खड़े हैं जैसा कि नीचे दिया गया है:
कुमार अंकुर के दायीं ओर 40 मीटर पर है।
देव कुमार के दक्षिण में 60 मीटर है।
नीलेश अंकुर के पश्चिम में 25 मीटर की दूरी पर है।
पिंटू देव के उत्तर में 90 मीटर की दूरी पर है।
कुमार के बाईं ओर वाले व्यक्ति के उत्तर-पूर्व में कौन सा है?

a) देव Dev
b) नीलेश Nilesh
c) अंकुर Ankur
d) पिंटू Pintu

59. Direction: Dev, Kumar, Nilesh, Ankur and Pintu are standing facing to the North in a playground such as given below:
Kumar is at 40 m to the right of Ankur.
Dev is are 60 m in the south of Kumar.
Nilesh is at a distance of 25 m in the west of Ankur.
Pintu is at a distance of 90 m in the North of Dev.
If a boy starting from Nilesh, met to Ankur and then to Kumar and after this he to Dev and then to Pintu and whole the time he walked in a straight line, then how much total distance did he cover?
निर्देश: देव, कुमार, नीलेश, अंकुर और पिंटू एक खेल के मैदान में उत्तर की ओर मुख करके खड़े हैं जैसा कि नीचे दिया गया है:
कुमार अंकुर के दायीं ओर 40 मीटर पर है।
देव कुमार के दक्षिण में 60 मीटर है।
नीलेश अंकुर के पश्चिम में 25 मीटर की दूरी पर है।
पिंटू देव के उत्तर में 90 मीटर की दूरी पर है।
यदि एक लड़का नीलेश से शुरू होकर अंकुर से और फिर कुमार से मिला और इसके बाद वह देव से और फिर पिंटू से और पूरे समय एक सीधी रेखा में चलता रहा, तो उसने कुल कितनी दूरी तय की?

a) 215 मी 215 m
b) 155 मी 155 m
c) 245 मी 245 m
d) 185 मी 185 m

60. निम्न में से भिन्न विकल्प का चयन कीजिये।

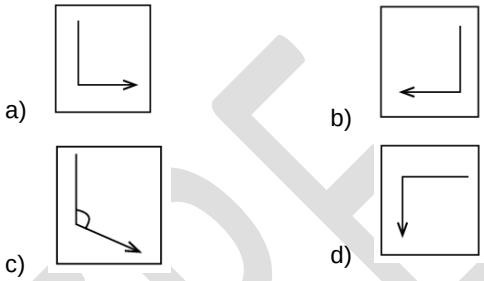

61. Direction: Which figure will come next in theseries.
निर्देश: श्रंखला में आगे कौन सी आकृति आएगी।

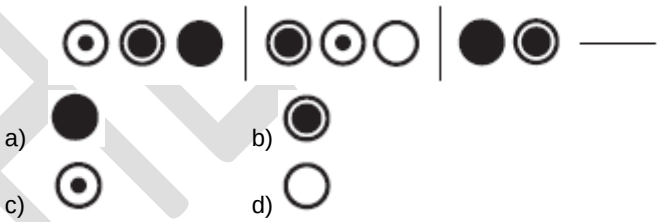

62. Direction: The question given below consists of a statement, followed by two arguments numbered I and II. You have to decide which of the argumentsis a 'strong' argument and which is a 'weak' argument.
Statement:
In this modern time, there are people who still believe in superstitions.
Arguments:
I) we have our own beliefs so we must respect others too.
II) We must educate them about good and bad belief.
निर्देश: नीचे दिए गए प्रश्न में एक कथन है, जिसके बाद दो तर्क I और II दिए गए हैं। आपको तय करना है कि कौन सा तर्क 'प्रबल' तर्क है और कौन सा 'निर्बल' तर्क है।
कथन: आज के इस आधुनिक समय में कुछ लोग ऐसे भी हैं जो आज भी अंधविश्वास को मानते हैं।
तर्क:
I) हमारे अपने विश्वास हैं इसलिए हमें दूसरों का भी सम्मान करना चाहिए।
II) हमें उन्हें अच्छे और बुरे विश्वास के बारे में शिक्षित करना चाहिए।

a) यदि केवल तर्क I प्रबल है If only argument I is strong
b) यदि केवल तर्क II प्रबल है If only argument II is strong
c) यदि या तो I या II प्रबल है If either I or II is strong
d) यदि न तो I और न ही II प्रबल है If neither I nor II is strong

63. Direction: Which of the following option is related to the fifth term in the same way as the second term is

related to the first term and the fourth term is related to the third term.
निर्देश: निम्नलिखित में से कौन सा विकल्प पाँचवें पद से उसी प्रकार संबंधित है जिस प्रकार दूसरा पद, पहले पद से और चौथा पद, तीसरे पद से संबंधित है।
BENEATH : EBAENHT :: GALLERY : AGELLYR :: EVIDENT : ?

a) VEDINET b) VEEDNTI
c) VEDETIN d) VEEDITN

64. Find the number of triangles in the given figure.
दी गई आकृति में त्रिभुजों की संख्या ज्ञात कीजिए।

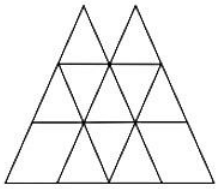

a) 16 b) 15
c) 18 d) 14

65. Read the following statements and answer the following question.
\(A@B\) means \(A\) is the husband of \(B\)
\(A \# B\) means \(A\) is the wife of \(B\)
\(A \$ B\) means \(A\) is the son of \(B\)
\(A \% B\) means \(A\) is the daughter of \(B\)
In the equation \(P \$ Q \# R \$ S\), How is \(S\) related to \(P\), if \(S\) is a female?
निम्नलिखित कथनों को ध्यानपूर्वक पढ़ें और दिए गए प्रश्न का उत्तर दें।
\(A@B\) का अर्थ है, \(A, B\) का पति है
\(A\#B\) का अर्थ है, \(A, B\) की पत्नी है
\(A$B\) का अर्थ है, \(A, B\) का बेटा है
\(A%B\) का अर्थ है,\(A, B\) की बेटी है
समीकरण \(P$Q\#R$S\) में, यदि \(S\) एक महिला है, तो \(S\) का \(P\) से क्या संबंध है?

a) सास Mother-in-law b) ग्रैंडफादर Grandfather
c) ग्रैंडमदर Grandmother d) माँ Mother

66. Direction : From the given alternatives, find the word which can be formed from the letters used in the given word.
निर्देश : दिए गए विकल्पों से, उस शब्द को ज्ञात कीजिये जिसे दिए गए शब्द में उपयोग किए गए अक्षरों से बनाया जा सकता है।
ANECDOTAL

a) FATAL b) DENTAL
c) ANTIDOTAL d) ANCIPITAL

67. निर्देश: निम्नलिखित डेटा एक शहर में 7 विभिन्न प्रकार के संगीत को पसंद करने वाले विभिन्न आयु वर्ग के लोगों की संख्या (हजारों में) को दर्शाता है।

संगीत	आयु वर्ग		
	15-20	21-30	>30
क्लॅसिकल	6	4	17
पॉप	7	5	5
रॉक	6	12	14
जाज	1	4	11
ब्लूस	2	3	15
हिप-हॉप	9	3	4
आंबियेंट	2	2	2
योग	33	33	68

21 - 30 आयु वर्ग के कितने प्रतिशत लोग पॉप या हिप-हॉप या ब्लूज़ पसंद करते हैं?

a) \(33 \%\) b) \(33 \frac{1}{3} \%\)
c) \(25 \%\) d) \(13 \%\)

68. Direction: Study the following information carefully and answer the questions given below.
Six friends H, I, J, K, L, and M went on holiday on two different dates, i.e., 2nd and 5th of three different months, i.e., October, November, and December of the same year but not necessarily in the same order. Three people went on holiday between M and K. H went on holiday immediately after L. M went after K. Two people went on holiday between J and M. I does not go in December.
How many persons went on holiday before L?
निर्देश: निम्नलिखित जानकारी का ध्यानपूर्वक अध्ययन करें और नीचे दिए गए प्रश्न का उत्तर दें।
छह मित्र H, I, J, K, L और M आवश्यक नहीं कि इसी क्रम में दो अलग-अलग तिथियों अर्थात् 2 और 5 तारीख को, एक ही वर्ष की तीन अलग - अलग महीनों अर्थात् अक्टूबर, नवम्बर और दिसंबर में छुट्टी पर जाते हैं। M और K के बीच तीन लोग छुट्टी पर गए। H, L के तुरंत बाद छुट्टी पर चला गया। M, K के बाद गया। दो लोग J और M के बीच छुट्टी पर गए। I दिसंबर में नहीं जाता है।
L से पहले कितने व्यक्ति छुट्टी पर गए थे?

a) 1 b) 2
c) 3 d) 4

69. Direction: Read the given statement(s) and conclusions carefully and select which of the conclusions logically follow(s) from the statement(s).
Statement:
Good voice is a natural gift, but one has to keep practicing to improve and excel in the field of music.
Conclusions:
I: Nature gifts need nurturing and care.
II: By continuous practice, one can get a natural gift.
निर्देश: दिए गए कथन/कथनों और निष्कर्ष /निष्कर्षों को ध्यान से पढ़ें और चयन करें कि कौन सा निष्कर्ष कथनों का तार्किक रूप से अनुसरण करता है।
कथन:

अच्छी आवाज़ एक प्राकृतिक उपहार है, लेकिन किसी भी व्यक्ति को संगीत के क्षेत्र में सुधार तथा उत्कृष्टता लाने के लिए अभ्यास करना पड़ता है।
निष्कर्ष:
I: प्रकृति उपहारों को शिक्षण और देखभाल की आवश्यकता होती है।
II: निरंतर अभ्यास करके, कोई भी व्यक्ति प्राकृतिक उपहार प्राप्त कर सकता है।

a) या तो निष्कर्ष I या II अनुसरण करता है। Either Conclusion I or II follows.
b) न तो निष्कर्ष I न ही II अनुसरण करता है। Neither Conclusion I nor II follow.
c) केवल निष्कर्ष I अनुसरण करता है। Only Conclusion I follows.
d) केवल निष्कर्ष II अनुसरण करता है। Only Conclusion II follows.

70. Direction: Read the given statement(s) and conclusions carefully and select which of the conclusions logically follow(s) from the statement(s).
Statement:
Fortune favors the brave.
Conclusions:
I: Risks are necessary for success.
II: Cowards die many times before their death.
निर्देश: दिए गए कथन/कथनों और निष्कर्ष /निष्कर्षों को ध्यान से पढ़ें और चयन करें कि कौन सा निष्कर्ष कथनों का तार्किक रूप से अनुसरण करता है।
कथन: भाग्य बहादुर का साथ देता है।
निष्कर्ष:
I: सफलता के लिए जोखिम जरूरी है।
II: डरपोक अपनी मृत्यु से पहले कई बार मरते हैं।

a) या तो निष्कर्ष I या II अनुसरण करता है। Either Conclusion I or II follows.
b) केवल निष्कर्ष I अनुसरण करता है। Only Conclusion I follows
c) केवल निष्कर्ष II अनुसरण करता है। Only Conclusion II follows.
d) न तो निष्कर्ष I न ही II अनुसरण करता है। Neither Conclusion I nor II follow.

71. Direction: Read the given statement(s) and conclusions carefully and select which of the conclusions logically follow(s) from the statement(s).
Statements: In a one day cricket match, the total runs made by a team were 200. Out of these 160 runs were made by spinners.
Conclsions:
I. 80% of the team consists of spinners.
II. The opening batsmen were spinners.
निर्देश: दिए गए कथन/कथनों और निष्कर्ष /निष्कर्षों को ध्यान से पढ़ें और चयन करें कि कौन सा निष्कर्ष कथनों का तार्किक रूप से अनुसरण करता है।
कथन: एक दिन के क्रिकेट मैच में, एक टीम द्वारा बनाए गए कुल रन 200 थे। इनमें से 160 रन स्पिनरों द्वारा बनाए गए थे।
निष्कर्ष:
I. टीम के 80% स्पिनरों में शामिल हैं।
II. शुरुआती बल्लेबाज स्पिनर थे।

a) केवल निष्कर्ष I अनुसरण करता है। Only conclusion I follows
b) केवल निष्कर्ष II अनुसरण करता है। Only conclusion II follows
c) या तो I या II अनुसरण करता है। Either I or II follows
d) न तो I और न ही II अनुसरण करता है। Neither I nor II follows

72. Direction: Study the following graphs and answer the following questions.
The graph shows the number of phones sold by three different companies in four different months.
निर्देश: निम्नलिखित आरेख का अध्ययन कीजिए और निम्नलिखित प्रश्नों के उत्तर दीजिए।
आरेख चार विभिन्न महीनों में तीन विभिन्न कंपनियों द्वारा बेचे गए फोन की संख्या को दर्शाता है।

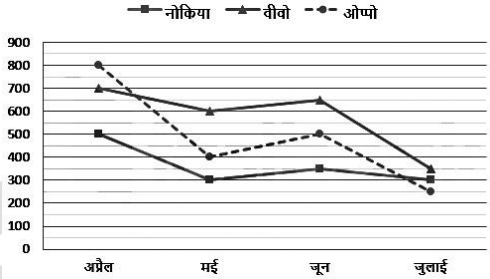

Vivo phones sold in July is how much percent less than the number of Nokia phones sold in April?
जुलाई में बेचे गए वीवो फोन अप्रैल में बेचे गए नोकिया फोन की संख्या से कितना प्रतिशत कम हैं?

a) 18%
b) 50%
c) 72%
d) 30%

73. निर्देश: दी गयी उत्तर आकृतियों में से उस उत्तर आकृति को चुनिए, जिसमें प्रश्न आकृति छिपी/निहित है?
Direction: From the given answer figures, select the answer figure in which the question figure is hidden/implied?

a)
b)
c)
d)

74. From the givenoptions , which figure cannot be formed by folding the figure given in the question ?
Question figure:
निम्न दिए गए विकल्पों में से ज्ञात करें कि प्रश्न में दी गई आकृति को मोड़कर कौन सी आकृति नहीं बनाई जा सकती है?
प्रश्न आकृति:

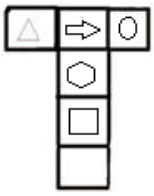

Answer Figure
उत्तर आकृतियां:

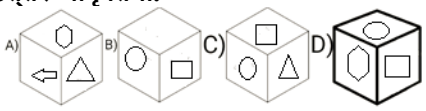

a) आकृति (A) Figure (A)
b) आकृति (B) Figure (B)
c) आकृति (C) Figure (C)
d) आकृति (D) Figure (D)

75. Direction: Study the following information carefully and answer the questions given below.
In a post office there are two stacks with five racks in each stack. Stack A is to the left of Stack B. In these racks posts of various cities Agra, Bhopal, Chennai, Dehradun, Surat, Rishikesh, Rajkot, Pune, Delhi and Vizag are stored after sorting but not necessarily in the same order.
The posts of Rishikesh are kept in the lowest rack of Stack A. Posts of three cities are kept below the posts of Delhi. Posts of Chennai are kept in Stack A. Posts of as many cities are kept above the posts of Delhi as many posts of cities are kept below the posts of Surat. Posts of Surat are not kept in the same stack as that of the posts of Rishikesh. Posts of only one city are kept between the posts of Delhi and Bhopal. Posts of Vizag are kept in the topmost rack of one of the stacks. Posts of Chennai are kept to the immediate left of the posts of Dehradun. Posts of Agra are kept in the same stack as the posts of Pune.The posts of Vizag and Agra are kept in the same stack.
If posts of Agra are not kept at the bottom of the stack then posts of which city is kept in the rack which is immediately below the rack in which posts of Surat are kept?
निर्देश: निम्नलिखित जानकारी का ध्यानपूर्वक अध्ययन कीजिए और नीचे दिए गए प्रश्नों के उत्तर दीजिए।
एक डाकघर में प्रत्येक ढेर में पाँच रैक के साथ दो ढेर हैं। ढेर A ढेर B के बाईं ओर है। इन रैक में विभिन्न शहरों आगरा, भोपाल, चेन्नई, देहरादून, सूरत, ऋषिकेश, राजकोट, पुणे, दिल्ली और विजाग की डाकों को छांटने के बाद संग्रहीत किया जाता है, लेकिन जरूरी नहीं कि उसी क्रम में हों।
ऋषिकेश की डाकों को ढेर A के सबसे निचले रैक में रखा गया है। तीन शहरों की डाकों को दिल्ली की डाकों के नीचे रखा गया है। चेन्नई की डाकों को ढेर A में रखा गया है। दिल्ली की डाकों के ऊपर जितने शहरों की डाकों रखा गया है उतनी ही शहरों की डाकों को सूरत की डाकों के नीचे रखा गया है। सूरत की डाकों को उसी रैक में नहीं रखा गया है जिसमें ऋषिकेश की डाकों को रखा गया है। दिल्ली और भोपाल की डाकों के बीच केवल एक शहर की डाकों को रखा गया है। विजाग की डाकों को किसी एक ढेर में सबसे ऊपरी रैक में रखा गया है। चेन्नई की डाकों को देहरादून की डाकों के निकटतम बाएं रखा गया है। आगरा की डाकों को उसी ढेर में रखा गया है जिसमें पुणे की डाकों को रखा गया है। विजाग और आगरा की डाकों को एक ही ढेर में रखा गया है।
यदि आगरा की डाकों को ढेर के सबसे नीचे नहीं रखा गया है तो किस शहर की डाकों को उस रैक में रखा गया है जो सूरत की डाकों की रैक के ठीक नीचे है?

a) भोपाल Bhopal
b) आगरा Agra
c) पुणे Pune
d) दिल्ली Delhi

76. Direction: A series is given with one missing term. Select the correct alternative from the given ones that will complete the series.
निर्देश: एक श्रृंखला दी गई है, जिसमें से एक पद लुप्त है। दिए गये विकल्पों में से वह सही विकल्प चुनिए, जो श्रृंखला को पूरा करेगा।
EB, HC, KD, NE, QF,?

a) SG
b) TG
c) UH
d) VH

77. Direction: A series is given with one missing term. Select the correct alternative from the given ones that will complete the series.
निर्देश: एक श्रृंखला दी गई है, जिसमें से एक पद लुप्त है। दिए गये विकल्पों में से वह सही विकल्प चुनिए, जो श्रृंखला को पूरा करेगा।
KN, MP, OR, QT, SV, ?

a) TW
b) UX
c) UT
d) UV

78. Direction: Two statements are given, followed by three conclusions numbered I, II and III. Assuming the statements to be true, even if they seem to be at variance with commonly known facts, decide which of the conclusions logically follow(s) from the statements.
Statements:
Some books are novels.
No novel is a diary.
Conclusions:
I. No book is a diary.
II. All diaries are books.
III. No diary is a novel.
निर्देश: दो कथन दिए गए हैं तथा इसके बाद I, II और III से क्रमांकित तीन निष्कर्ष दिए गए हैं। कथनों को सत्य मानते हुए, भले ही वे सामान्य ज्ञात तथ्यों से भिन्न प्रतीत होते हों, तय कीजिए कि कौन-सा निष्कर्ष कथन का तार्किक रूप से अनुसरण करता है।
कथन:
कुछ पुस्तकें उपन्यास हैं।
कोई उपन्यास डायरी नहीं है।
निष्कर्ष:
I. कोई पुस्तक डायरी नहीं है।
II. सभी डायरी पुस्तकें हैं।
III. कोई डायरी उपन्यास नहीं है।

a) या तो निष्कर्ष I या II और केवल निष्कर्ष III अनुसरण करता है Either conclusion I or II and only conclusion III follows
b) केवल निष्कर्ष II अनुसरण करता है Only conclusion II follows
c) केवल निष्कर्ष I अनुसरण करता है Only conclusion I follows
d) केवल निष्कर्ष III अनुसरण करता है Only conclusion III follows

79. What is the next number of the following sequence?
निम्नलिखित अनुक्रम की अगली संख्या क्या है?

\(3.4,9.3,4,9.8,4.6,10.3,5.2,10.8, \ldots\)

a) \(5.8\) b) \(12.5\)
c) \(13.5\) d) \(5.5\)

80. If the letters of the word 'FUTURISTIC' are arranged in alphabetical order from left to right, then what will be the third letter of a meaningful English word that can be formed using the third, fifth, sixth and eighth letters of the word formed after such arrangement?
यदि 'FUTURISTIC' शब्दों के अक्षरों को बाएं से दाएं वर्णानुक्रम में व्यवस्थित किया जाता है, तो व्यवस्थित करने के बाद बने शब्द के तीसरे, पांचवें, छठे और आठवें अक्षर का उपयोग करके बनने वाले अर्थपूर्ण अंग्रेजी शब्द का तीसरा अक्षर क्या होगा?

a) R b) I
c) S d) T

81. Pointing towards a girl, Gitesh said, "She is the only daughter of my daughter-in-law". How is the girl related to Gitesh?
एक महिला की ओर इशारा करते हुए, गीतेश ने कहा, "वह मेरी बहू की इकलौती पुत्री है"। गीतेश से महिला किस प्रकार से संबंधित है?

a) पुत्री Daughter b) भतीजी Niece
c) बहन Sister d) पौत्री Grand daughter

82. You have complaints of corruption charges against a senior banker from an individual who has been denied a large value loan by the banker. Which of the following courses of action will be adopted by you?
आपके पास एक वरिष्ठ बैंकर के खिलाफ भ्रष्टाचार के आरोपों की शिकायत एक ऐसे व्यक्ति से है जिसे बैंकर द्वारा बड़े मूल्य के ऋण से वंचित कर दिया गया है। आपके द्वारा निम्नलिखित में से कौन सी कार्रवाई अपनायी जाएगी?

a) तुरंत बैंकर को गिरफ्तार करेंगे Arrest the banker immediately
b) शिकायत को स्वीकार करने से इनकार करेंगे Deny to accept the complaint
c) स्वतंत्र जांच का आदेश देंगे Order for independent investigation
d) कानूनी मुकदमा दायर करेंगे File a legal suite

83. In a code language, if "RAIN" is written as "149118", then how will "SHIP" be written in the same language?
एक कूट भाषा में, यदि "RAIN" को "149118" के रूप में लिखा लिखा जाता है, तो उस भाषा में "SHIP" को किस प्रकार लिखा जाएगा?

a) 198916 b) 168919
c) 169198 d) 169819

84. Dinesh is taller than Chinku and Elina. Akash is not as tall as Elina. Chinku is taller than Akash. Dinesh is not as tall as Bikash. Who among them is next to the tallest one?
दिनेश, चिंकू और एलीना से लम्बा है। आकाश एलीना जितना लंबा नहीं है। चिंकू आकाश से लम्बा है। दिनेश बिकाश जितना लंबा नहीं है। उनमें से सबसे लंबे व्यक्ति के बगल में कौन है?

a) बिकाश Bikash b) चिंकू Chinku
c) आकाश Akash d) दिनेश Dinesh

85. Direction: In the question below, is given a statement followed by two assumptions numbered I and II. An assumption is something supposed or taken for granted. You have to consider the statement and the assumptions and decide which of the assumption(s) is/are implicit in the statement.
Statement: The government has decided to provide monetary relief to the farmers in the flood-hit districts of Bihar.
Assumptions:
I. The farmers of the affected areas may accept the Government relief.
II. The Government machinery may be able to reach the affected farmers to provide relief.
नीचे दिए गए प्रश्नों में, एक कथन दिया गया है जिसके बाद दो धारणाएं I और II दी गई हैं। एक धारणा में कुछ माना जाता है। आपको कथन और धारणाओं पर विचार करना है और निर्णय लेना है कि कौन-सी धारणा कथन में निहित है/हैं।
कथन सरकार ने बिहार के बाढ़ प्रभावित जिलों में किसानों को आर्थिक राहत प्रदान करने का निर्णय लिया है।
धारणाएं
I. प्रभावित क्षेत्रों के किसान सरकारी राहत स्वीकार कर सकते हैं।
II. सरकारी तंत्र प्रभावित किसानों तक राहत पहुंचाने में सक्षम हो सकता है।

a) यदि केवल धारणा I निहित है If only Assumption I is implicit
b) यदि केवल धारणा II निहित है If only Assumption II is implicit
c) यदि न तो I और न ही II निहित है If neither I nor II is implicit
d) यदि I और II दोनों निहित हैं If both I and II are implicit

86. In a certain code language, '+' means ' \(/ ', ' /\) ' means ' \(\times 1, ' \times{ }^{\prime}\) means '-', '-' means ' \(+\) '.
\((10-2 \times 3) /(4-5 \times 8) \times(2-3) / 2\)
एक निश्चित कोड भाषा में, '+' का अर्थ है 'I', 'I' का अर्थ है ' \(\times\) ', ' \(\times\) ' का अर्थ है '-', '-' का अर्थ है 't'
\((10-2 \times 3) /(4-5 \times 8) \times(2-3) / 2\)

a) 90 b) 0
c) -1 d) -34

87. You have a suspicion that your sub-ordinate is taking bribes to register complaints against offenders. Which of the following course of actions will you take?
आपको संदेह है कि आपका अधीनस्थ अपराधियों के खिलाफ शिकायत दर्ज करने के लिए रिश्वत ले रहा है। आप निम्नलिखित में से कौन सा कार्य करेंगे?

a) आप उस व्यक्ति को तुरंत बर्खास्त कर देंगे You will dismiss the person immediately
b) आप उसकी इच्छित पदोन्नति रोक देंगेYou will stop his intended promotion

c) आप सत्यापित करेंगे कि क्या संदेह वैध हैYou will verify whether the suspicion is valid
d) आप उसे तुरंत निलंबित कर देंगेYou will suspend him immediately

88. वह विकल्प चुनिए जो शेष तीन विकल्पों से भिन्न है।
Select the option which is different from the remaining three options.

a) 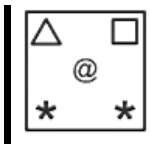
b) 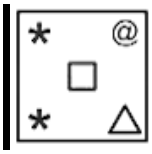
c) 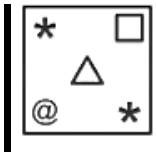
d) 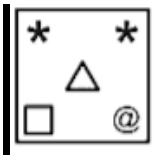

89. Which of the following answer figure complete the series of the question figure?
निम्नलिखित में से कौन-सी उत्तर आकृति प्रश्न आकृति की श्रृंखला को पूर्ण करती है।

a) 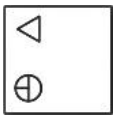
b)
c) 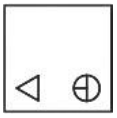
d) 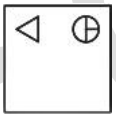

90. Direction: Two statements are given, followed by three conclusions numbered I, II and III. Assuming the statements to be true, even if they seem to be at variance with commonly known facts, decide which of the conclusions logically and definitely follow(s) from the statements.
Statements:
All donkeys are horses.
No cow is a horse.
Conclusions:
I. Some cows are donkeys
II. Some horses are donkeys.
III. No donkeys is a cow.
निर्देश: दो कथन दिए गए हैं तथा इसके बाद I, II और III से क्रमांकित तीन निष्कर्ष दिए गए हैं। कथनों को सत्य मानते हुए, भले ही वे सामान्य ज्ञात तथ्यों से भिन्न प्रतीत होते हों, तय कीजिए कि कौन-सा निष्कर्ष कथन का तार्किक रूप से अनुसरण करता है।
कथन:
सभी गधे घोड़े हैं।
कोई गाय घोड़ा नहीं है।
निष्कर्ष:
I. कुछ गाय गधे हैं।
II. कुछ घोड़े गधे हैं।
III. कोई गधा गाय नहीं है।

a) निष्कर्ष II और III दोनों अनुसरण करते हैं Both conclusions II and III follow
b) केवल निष्कर्ष II अनुसरण करता है Only conclusion II follows
c) केवल निष्कर्ष III अनुसरण करता है Only conclusion III follows
d) या तो निष्कर्ष II या III अनुसरण करता है Either conclusion II or III follows

91. Direction: In the following question find which one word cannot be formed from the letters of the given word using each letter onlyonce.
निर्देश: दिए गए प्रश्न में दिए गए शब्द के अक्षरों को एक बार प्रयोग करके कौन सा शब्द नहीं बनाया जा सकता है।
PROGNOSTICATION

a) RONTGEN
b) START
c) SPITOON
d) ROGATION

92. Directions: From the given alternatives, select the word which CANNOT be formed using the letters of the given word.
निर्देश: निम्नलिखित विकल्पों में से वह शब्द चुनिए, जिसे दिए गए शब्द के अक्षरों का प्रयोग करके नहीं बनाया जा सकता है
HATCHING

a) ACTING
b) NIGHT
c) THING
d) MATCH

93. If in a certain code language, LAFANGEY is written as 31615757, then what will be the code for SAILBOAT in that code language?
अगर एक विशेष कूट भाषा में, LAFANGEY को 31615757 के रूप में लिखा जाता है, तो उसी कूट भाषा में SAILBOAT के लिए क्या कूट होगा?

a) 11586221
b) 11852612
c) 12589321
d) 11932612

94. In a row of letters, a letter is 5th from left end and 12th from the right end. How many letters are there in a row?
अक्षरो की पंक्ति में, एक अक्षर बाँये से 5 वाँ और दाहिने से 12 वाँ है। पंक्ति में कुल कितने अक्षर है?

a) 15
b) 16
c) 17
d) 18

95. Directions: The following Pie charts show the percentage of students who like five different subjects of engineering from college x. Percentage of students who like 5 different subjects of engineering.
निर्देश: निम्नलिखित वृत्त चार्ट उन छात्रों के प्रतिशत को दर्शाता है जो कॉलेज x से इंजीनियरिंग के पांच अलग-अलग विषयों को पसंद करते हैं। इंजीनियरिंग के 5 अलग-अलग विषयों को पसंद करने वाले छात्रों का प्रतिशत।

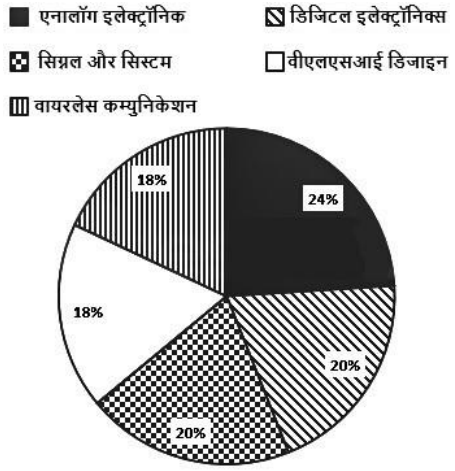

Total number of students in college x is 1000.
What is difference between number of students who like Analogue Electronics and VLSI Design.
कॉलेज x में छात्रों की कुल संख्या 1000 है।
एनालॉग इलेक्ट्रॉनिक्स और वीएलएसआई डिजाइन को पसंद करने वाले छात्रों की संख्या के बीच अंतर क्या है?

a) 100 b) 80
c) 70 d) 60

96. Two positions of the same dice are given. Which number will be at the top if "9" is at the bottom?
एक ही पासे की दो स्थितियाँ दी गई हैं। यदि "9" सबसे नीचे है तो कौन सी संख्या सबसे ऊपर होगी?

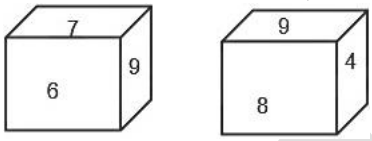

a) 6 b) 8
c) 4 d) 5

97. Find the next number in the series.
श्रेणी में अगली संख्या ज्ञात कीजिए।
\(5, 6, 11, 34, 135, ?\)

a) \(679\) b) \(677\)
c) \(678\) d) \(676\)

98. उस आकृति का चयन कीजिए जो शेष से भिन्न है।
Select the figure which is different from the rest.

a) 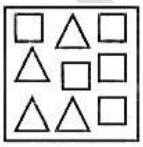
b) 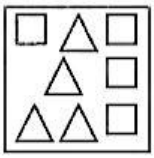
c) 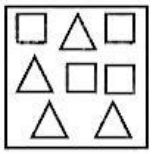
d) 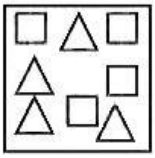

99. If '+' represents '×', '-' represents '÷', '×' represent '-' and '÷' represent '+' then find the value of the following expression.
\(2+8-4 \times 2 \div 5=?\)
यदि '+', '×' का प्रतिनिधित्व करता है, '-', ÷' का प्रतिनिधित्व करता है, '×', '-' का प्रतिनिधित्व करता है और '÷', '+' का प्रतिनिधित्व करता है तो निम्न व्यंजक का मान ज्ञात कीजिए।
\(2+8-4 \times 2 \div 5=?\)

a) \(3\) b) \(7\)
c) \(5\) d) \(9\)

100. Direction: Study the given bar graph and answer the following questions accordingly.
The bar graph shows the three different types of pizzas sold by Pizza Hut in four different weeks.
निर्देश: दिए गए दंड आलेख का अध्ययन कीजिए और उसके अनुसार निम्नलिखित प्रश्नों के उत्तर दीजिए।
दंड आलेख पिज़्ज़ा हट द्वारा चार अलग-अलग सप्ताहों में बेचे गए तीन अलग-अलग प्रकार के पिज्जा दर्शाता है।

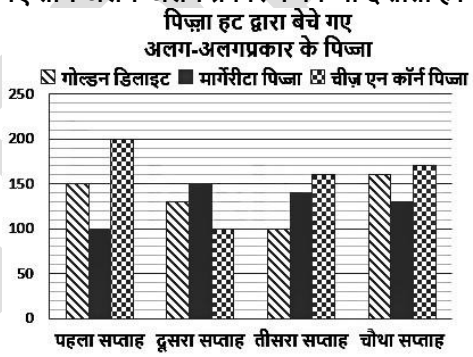

What is the total number of all pizzas sold in the first two weeks?
पहले दो सप्ताहों में बेचे गए सभी पिज़्ज़ा की कुल संख्या कितनी है?

a) \(630\) b) \(730\)
c) \(830\) d) \(430\)

101. How many types of emergencies have been envisaged by the Constitution?
संविधान के द्वारा कितने प्रकार की आपात स्थितियों की परिकल्पना की गयी है?

a) केवल एक Only one b) दो Two
c) तीन Three d) चार Four

102. Who among the following was the first Indian to qualify for the Indian Civil Service?
निम्नलिखित में से कौन भारतीय सिविल सेवा के लिए योग्यता अर्जित करने वाला पहला भारतीय था?

a) सत्येंद्रनाथ टैगोर Satyendranath Tagore b) सुरेंद्रनाथ बनर्जी Surendranath Banerjee
c) आर.सी. दत्त R.C. Dutt d) सुभाष चंद्र बोस Subhas Chandra Bose

103. In which year United Provinces was renamed as Uttar Pradesh?
किस सन् में संयुक्त प्रांत का नाम उत्तर प्रदेश रखा गया?

a) 1937 b) 1935
c) 1950 d) 1961

104. Rearing of silkworms for the production of silk fibre is known as _____.
रेशम के रेशे के उत्पादन के लिए रेशमकीट पालन को _____ के रूप में जाना जाता है।

a) सेरीकल्चर Sericulture
b) एपीकल्चर Apiculture
c) फ्लोरकल्चर Floriculture
d) इनमें से कोई नहींNone of these

105. In which year, Bihar Panchayati Raj Act was passed?
बिहार पंचायती राज अधिनियम किस वर्ष पारित किया गया था?

a) \(2006\)
b) \(2003\)
c) \(1997\)
d) \(2011\)

106. ____is space between your content and the edge of the page in MS Excel.
एमएस एक्सेल में आपके कंटेंट और पेज के किनारे के बीच का स्थान _____ है।

a) मार्जिन Margin
b) प्रिंट एरिया Print Area
c) ओरिएंटेशन Orientation
d) प्रिंट टाइटल्स Print titles

107. Which of the following statements is correct about socialism mentioned in the Preamble of the Indian Constitution?
1- The Indian brand of socialism is democratic socialism.
2-It is a blend of Marxism and Gandhism leaning heavily towards Gandhian socialism.
select the answer using the code given below.
भारतीय संविधान की प्रस्तावना में उल्लिखित समाजवाद के बारे में निम्नलिखित में से कौन सा कथन सही है?
1- समाजवाद का भारतीय ब्रांड लोकतांत्रिक समाजवाद है।
2- यह मार्क्सवाद और गांधीवाद का मिश्रण है जो गांधीवादी समाजवाद की ओर बहुत अधिक झुकाव रखता है।
नीचे दिए गए कोड का प्रयोग कर उत्तर चुनिए।

a) केवल 1 Only 1
b) केवल 2 Only 2
c) 1 और 2 दोनों Both 1 and 2
d) न तो 1 और न ही 2 Neither 1 nor 2

108. Which of the following was not one of the ruling dynasties of South India in the Sangam Age?
संगम युग में निम्नलिखित में से कौन दक्षिण भारत के शासक राजवंशों में से एक नहीं था?

a) चोल Chola
b) चेरा Chera
c) पांड्या Pandya
d) पल्लव Pallava

109. Which of the following pair is correctly matched?
निम्नलिखित में कौन युग्म सही सुमेलित है?

a) मूंगा रेशम - अरुणाचल प्रदेश Coral silk - Arunachal Pradesh
b) ईरी रेशम - असम Eri silk - Assam
c) शहतूत रेशम - झारखण्ड Mulberry silk - Jharkhand
d) तसर रेशम - झारखण्ड Tasar silk - Jharkhand

110. _____ state has launched a multi-purpose online portal called 'Residents Safety and Security Act'.
_____ राज्य ने 'निवासी सुरक्षा और सुरक्षा अधिनियम' नामक एक बहुउद्देश्यीय ऑनलाइन पोर्टल लॉन्च किया है।

a) पश्चिम बंगाल West Bengal
b) मेघालय Meghalaya
c) सिक्किम Sikkim
d) उड़ीसा Odisha

111. What type of seed does the golden yellow tag represent?
सुनहरा पीला टैग किस प्रकार के बीज को दर्शाता है?

a) प्रजनक बीज Breeder seed
b) प्रमाणित बीज Certified seed
c) फाउंडेशन बीज Foundation seed
d) पंजीकृत बीज Registered seed

112. Which of the following soil is transported by gravity?
निम्नलिखित में से कौन-सी मृदा गुरुत्वाकर्षण द्वारा ले जाया जाता है?

a) वातोढ़ मृदा Aeolian soil
b) मिश्रोढ़ मृदा Colluvium soil
c) जलोढ़ मृदा Alluvium soil
d) हिमनद मृदा Glacial soil

113. With reference to the Swadesh Bandhab Samiti during Swadeshi Movement, consider the following statements:
1- It was the first revolutionary organization in Bengal.
2- It was formed by Ashwini Kumar Dutt.
3- It was able to secure mass support predominantly from muslim peasantry.
Which of the statements given above are correct?
स्वदेशी आंदोलन के दौरान स्वदेश बंधु समिति के संदर्भ में, निम्नलिखित कथनों पर विचार कीजिए:
1- यह बंगाल का पहला क्रांतिकारी संगठन था।
2-इसे अश्विनी कुमार दत्त ने बनाया था।
3- यह मुख्य रूप से मुस्लिम किसानों से बड़े पैमाने पर समर्थन को सुरक्षित करने में सक्षम था।
ऊपर दिए गए कौन से कथन सही हैं?

a) केवल 1 और 3 1 and 3 only
b) 2 और 3 केवल 2 and 3 only
c) 1 और 2 केवल 1 and 2 only
d) 1, 2 और 3 1, 2 and 3

114. Where is Chaukhandi Stupa located in Uttar Pradesh?
उत्तर प्रदेश में चौखंडी स्तूप कहाँ स्थित है?

a) इलाहाबाद Allahabad
b) गोरखपुर Gorakhpur
c) कौशम्बी kaushambi
d) सारनाथ Sarnath

115. Which of the following country to host the G20 Summit in 2023?
निम्नलिखित में से कौन सा देश 2023 में G20 शिखर सम्मेलन की मेजबानी करेगा?

a) इटली Italy
b) इंडोनेशिया Indonesia
c) भारत India
d) ब्राज़िल Brazil

116. निम्नलिखित का मिलान करें-

	त्योहार		राज्य
1.	गणगौर	a.	पश्चिम बंगाल
2.	गणेश चतुर्थी	b.	राजस्थान
3.	दुर्गा पूजा	c.	महाराष्ट्र

Match the following-

	Festival		State
1.	Gangaur	a.	West Bengal
2.	Ganesh Chaturthi	b.	Rajasthan
3.	Durga Puja	c.	Maharastra

a) 1-b, 2-c, 3-a b) 1-c, 2-a, 3-b
c) 1-b, 2-a, 3-c d) 1-a, 2-c, 3-b

117. What is the expansion of NASA?
नासा का विस्तार क्या है?
a) अंतरिक्ष प्रशासन की राष्ट्रीय एजेंसी National Agency of Space Administration
b) नौवहन वैमानिकी और अंतरिक्ष प्रशासन Navigational Aeronautics and Space Administration
c) राष्ट्रीय वैमानिकी और अंतरिक्ष प्रशासन National Aeronautics and Space Administration
d) राष्ट्रीय वैमानिकी और अंतरिक्ष एजेंसी National Aeronautics and Space Agency

118. Which among the following does not has a legal status?
निम्नलिखित में से किसके पास कानूनी स्थिति नहीं है?
a) चेक Cheque b) मांग पत्र Demand Draft
c) विनिमय बिल Bills of exchange d) हुंडी Hundi

119. The value of a Terabyte is:
एक टेराबाइट का मान है:
a) 1024 पेटाबाइट्स 1024 Petabytes b) 1024 मेगाबाइट 1024 Megabytes
c) 1024 गीगाबाइट 1024 Gigabytes d) 1024 किलोबाइट 1024 Kilobytes

120. Who among the following is NOT an Indian weightlifter?
निम्नलिखित में से कौन भारतीय भारोत्तोलक/वेटलिफ्टर नहीं है?
a) कर्णम मल्लेश्वरी Karnam Malleswari b) दीपिका पल्लीकल Dipika Pallikal
c) अक्षय चौहान AKSHAY CHOUHAN d) राखी हलधर Rakhi Haldar

121. Who wrote 'Ambedkar: A Life'?
अंबेडकर: ए लाइफ' किसने लिखा है?
a) शशि थरूर Shashi Tharoor b) नरेश पटेल Naresh Patel
c) जयेश गौतम Jayesh Gautam d) अनिल टेम्ब्रे Anil Tembhre

122. Which of the following is the strongest natural fiber?
निम्नलिखित में से कोन सा सबसे मजबूत प्राकृतिक फाइबर है?
a) कपास Cotton b) जूट Jute
c) रेशम Silk d) ऊन Wool

123. Where is the famous Buland Darwaza located in Uttar Pradesh?
उत्तर प्रदेश में प्रसिद्ध बुलन्द दरवाजा कहाँ स्थित है?
a) फतेहपुर सीकरी Fatehpur Sikri b) लखनऊ Lucknow
c) जौनपुर Jaunpur d) आगरा Agra

124. According to the Indian Constitution, which of the following has been given Residuary Powers?
भारतीय संविधान के अनुसार, निम्नलिखित में से किसे अवशिष्ट शक्तियां दी गई हैं?
a) केंद्र Centre b) राज्य और केंद्र States and Centre
c) स्थानीय निकाय Local Bodies d) राज्य States

125. Which of the following matches of Peaks with their state are correct?
1- Dodda Betta– Tamil Nadu
2-Nand Devi– Uttarakhand
3- Anai Mudi– Kerala
4- Saramati- Nagaland
Choose the correct option from the codes given below:
अपने राज्य के साथ चोटियों के निम्नलिखित मैचों में से कौन सा सही है?
1- डोड्डा बेट्टा- तमिलनाडु
2-नंद देवी- उत्तराखंड
3- अनई मुड़ी- केरल
4- सरमाटी- नागालैंड
नीचे दिए गए कोड में से सही विकल्प चुनें:
a) 1 और 2 1 and 2 b) 2 और 3 2 and 3
c) 1, 3 और 4 1, 3 and 4 d) 1, 2, 3 और 4 1, 2, 3 and 4

126. Which of the following is a non-Indian religion?
निम्नलिखित में से कौन एक गैर-भारतीय धर्म है?
a) बौद्ध धर्म Buddhism b) जैन धर्म Jainism
c) यहूदी धर्म Judaism d) हिन्दू धर्म Hinduism

127. Which of the following is not added in the calculation of the national income of India?
निम्नलिखित में से किसे भारत की राष्ट्रीय आय की गणना में नहीं जोड़ा जाता है?
a) वस्तुओं और सेवाओं का मूल्य The value of goods and services
b) पुराने फ्रिज का बेचा मूल्य The sold value of the old fridge.
c) गृहिणियों द्वारा प्रदान की गई सेवाएं Services rendered by the housewives.
d) (B) और (C) दोनों Both (B) & (C)

128. In the Rigvedic period, Aranyani is the goddess of _____.
ऋग्वेदिक काल में, अरण्यानी _____ की देवी थी।
a) वन Forest b) नदी River
c) भूमि Earth d) भोर Dawn

129. The first source of irrigation in India is:
भारत में सिंचाई का सर्वप्रथम स्रोत है:
a) नहरें Canals b) तालाब Pond
c) कुआं व नलकूप Wells and tube wells d) अन्य स्रोत Other sources

130. When is the United Nations Day celebrated across the world?
विश्व में संयुक्त राष्ट्र दिवस कब मनाया जाता है?
a) 20 अक्टूबर October 20 b) 24 अक्टूबर October 24
c) 27 नवंबर November 27 d) 30 नवंबर November 30

131. Which Indian city has been selected as the first Cultural and Tourism Capital of SCO for 2022-23?
किस भारतीय शहर को 2022-23 के लिए एससीओ की पहली सांस्कृतिक और पर्यटन राजधानी के रूप में चुना गया है?
a) जयपुर Jaipur b) कोच्चि Kochi
c) वाराणसी Varanasi d) कोलकाता Kolkata

132. Which Union Ministry organised the 'EU-India Green Hydrogen Forum'?
किस केंद्रीय मंत्रालय ने 'ईयू-इंडिया ग्रीन हाइड्रोजन फोरम' का आयोजन किया था?
a) बिजली मंत्रालय Ministry of Power b) नवीन और नवीकरणीय ऊर्जा मंत्रालय Ministry of New and Renewable Energy
c) विदेश मंत्रालय Ministry of External Affairs d) वाणिज्य और उद्योग मंत्रालय Ministry of Commerce and Industry

133. Guru Shyama Charan Pati, was conferred the Padma Shri for his contributions to mainly which of the following dance forms?
गुरु श्यामा चरण पति को मुख्य रूप से निम्नलिखित में से किस नृत्य शैली में उनके योगदान के लिए पद्म श्री से सम्मानित किया गया था?
a) काठी नाच Kathi nacha b) छाऊ नृत्य Chhau nritya
c) झुमैर Jhumair d) संथाली नृत्य Santali dance

134. Famous classical dancer Vidyagauri Adkar is recognised with _____ Gharana of Indian classical dance form.
प्रसिद्ध शास्त्रीय नृत्यांगना विद्यागौरी अडकर को भारतीय शास्त्रीय नृत्य के_____घराने से पहचाना जाता है।
a) ग्वालियर Gwalior b) बनारस Banaras
c) अलवर Alwar d) जयपुर Jaipur

135. The interval between the instant a computer makes a request for the transfer of data from a disk system to the primary storage and the instance this operation is completed is called _____.
एक कंप्यूटर द्वारा डिस्क सिस्टम से प्राइमरी स्टोरेज में डेटा के हस्तांतरण के लिए अनुरोध करने के बीच का अंतराल और इस ऑपरेशन के पूरा होने के अनुरोध को _____ कहा जाता है।
a) डिस्क अराइवल टाइम Disk arrival time b) डिस्क एक्सेस टाइम Disk access time
c) ड्राइव यूटिलाइजेशन टाइम Drive utilization time d) डिस्क यूटिलाइजेशन टाइम Disk utilization time

136. In February 2022, which of the following has become a 100 percent Plastic Waste Neutral company' in India?
फरवरी 2022 में, निम्नलिखित में से कौन भारत में 100 प्रतिशत प्लास्टिक वेस्ट न्यूट्रल कंपनी बन गई है?
a) झंडू आयुर्वेद Zandu Ayurveda b) पतंजलि Patanjali
c) डाबर Dabur d) बैद्यनाथ Baidyanath

137. Which of the following statements about the Sanyasi and Faqir disturbances/rebellions are correct?
1-Governor - General Warren Hastings faced the persistent Sanyasi and Faqir disturbances in Bengal and Bihar
2-There were a number of Shaivite Naga Sanyasis who formed into armed bands.
3-Majnu Shah, who led bands into Bengal from 1771, was their prominent leader.
Select the correct answer using the code given below:
संन्यासी और फ़क़ीर अशांति/विद्रोह के बारे में निम्नलिखित कथनों में से कौन-से सही हैं?
1-गवर्नर-जनरल वारेन हेस्टिंग्स ने बंगाल और बिहार में निरंतर संन्यासी और फ़क़ीर अशांतियों का सामना किया।
2-अनेक शैवपंथी नागा संन्यासियों ने सशस्त्र दल बनाया।
3-मजनू शाह, जिसने 1771 से बंगाल की ओर दलों का नेतृत्व किया, उनका प्रमुख नेता था।
नीचे दिए गए कूट का प्रयोग करते हुए सही उत्तर का चयन कीजिए:
a) केवल 1 और 2 1 and 2 only b) 1,2 और 3 1, 2 and 3
c) केवल 2 और 3 2 and 3 only d) केवल 1 और 3 1 and 3 only

138. Where is the Indian emblem 'Singh Pillar' built by Ashoka in Uttar Pradesh?
अशोक द्वार निर्मित भारत का राजचिन्ह 'सिंह स्तम्भ ' उत्तर प्रदेश में कहाँ पर है?
a) इलाहबाद Allahabad b) मथुरा Mathura
c) अलीगढ़ Aligarh d) सारनाथ Sarnath

139. Which national park forms part of the Nilgiri Biosphere Reserve (reserved biosphere)?
कौन सा राष्ट्रीय उद्यान, नीलगिरि बायोस्फीयर रिजर्व (आरक्षित जैवमंडल) के भाग का निर्माण करता है?
a) बांदीपुर बाघ रिजर्व और राष्ट्रीय उद्यान Bandipur Tiger Reserve and National Park b) पेरियार राष्ट्रीय उद्यान Periyar National Park
c) काली बाघ अभ्यारण्य Kali Tiger Reserve d) अन्नामलाई बाघ अभ्यारण्य Annamalai Tiger Reserve

140. Who from among the following appoints the Secretary of Gram Panchayat?
निम्नलिखित में से कौन ग्राम पंचायत के सचिव की नियुक्ति करता है?
a) पंचायत समिति Panchayat Samiti b) जिला परिषद Zila Parishad

c) पंचायत अध्यक्ष Panchayat President
d) राज्य सरकार State Government

141. Who is known as the father of Artificial Intelligence?
कृत्रिम बुद्धिमत्ता के जनक के रूप मे किसे जाना जाता है?
a) विंट सर्फ Vint Cerf
b) रे टॉमलिंसन Ray Tomlinson
c) टिम बर्नर्स-ली Tim Berners-Lee
d) जॉन मैकार्थी John McCarthy

142. What is the structure of local self-government in Uttar Pradesh?
उत्तर प्रदेश में स्थानीय स्वायत्त शासन का ढांचा किस प्रकार का है?
a) एकस्तरीय Unilateral
b) चतुर्स्तरीय Quadrilateral
c) त्रिस्तरीय Three-tier
d) द्विस्तरीय Two-tier

143. 'Varanasi Declaration', which was seen in the news recently, is associated with which field?
हाल ही में समाचारों में रहा 'वाराणसी घोषणा' किस क्षेत्र से संबंधित है?
a) पर्यावरण Environment
b) शिक्षा Education
c) अंतरिक्ष विज्ञान Space Science
d) चिकित्सा विज्ञान Medical Science

144. The Centre has completed asset monetization worth how many rupees during FY22?
केंद्र ने FY22 के दौरान कितने रुपये की संपत्ति मुद्रीकरण पूरा किया है?
a) 78,000
b) 85,000
c) 96,000
d) 1,00,000

145. In which district of Rajasthan 'JAKHAM' Multipurpose project is located?
राजस्थान 'जाखम 'बहुउद्देशीय परियोजना किस जिले में स्थित है?
a) टोंक Tonk
b) बांसवाड़ा Banswara
c) भरतपुर Bharatpur
d) प्रतापगढ़ Pratapgarh

146. A geographical indication tag is used to assign certain products corresponding to a specific region. Which among the following is not the GI tagged product in India?
किसी विशिष्ट क्षेत्र के अनुरूप कुछ उत्पादों को असाइन करने के लिए एक भौगोलिक संकेत टैग का उपयोग किया जाता है। निम्नलिखित में से कौन भारत में जीआई टैग उत्पाद नहीं है?
a) कड़कनाथ Kadaknath
b) विजयवाड़ा डुरियां Vijayawada Durries
c) कटारनी चावल Katarni Rice
d) जरदालू आम Zardalu Mango

147. What is Archipelago?
द्वीपसमूह क्या है?
a) भूमि का एक टुकड़ा जो समुद्र में बाहर निकला हुआ होना A piece of land jutting out into the sea
b) द्वीपों का एक समूह जो काफी सामीप्यता में स्थित है A group of islands that lie in fairly close proximity
c) एक बड़ी भौगोलिक इकाई जो शेष महाद्वीप से अलग दिखती है A big geographical unit which stands out distinctly from the rest of the continent
d) इनमें से कोई नहीं None of these

148. In the month of June 2022 who has launched the scheme known as "SHRESHTA" for residential education for students in High school?
जून 2022 के महीने में हाई स्कूल में छात्रों के लिए आवासीय शिक्षा के लिए "श्रेष्ठ" नामक योजना किसने शुरू की है?
a) वीरेन्द्र कुमार Virendra Kumar
b) अमित शाह Amit Shah
c) नरेंद्र मोदी Narendra Modi
d) राजनाथ सिंह Rajnath Singh

149. In November 2022, India held "Indo-German Week of the Young Researchers 2022 program" with which country?
नवंबर 2022 में, भारत ने किस देश के साथ "युवा शोधकर्ताओं का इंडो-जर्मन सप्ताह 2022 कार्यक्रम" आयोजित किया?
a) यूएसए USA
b) जर्मनी Germany
c) फ्रांस France
d) यूके UK

150. Which one among the following is not a function of Mir Bakshi, the Head of the Military Department as well as of the nobility under the Mughal rule?
निम्नलिखित में से कौन सा मीर बख्शी का एक कार्य नहीं है, जो मुगल शासन के तहत सैन्य विभाग का प्रमुख था?
a) He was responsible for all incomes and expenditures and held control over Khalisa, Jagir and Inam lands.
वह सभी आय और व्यय के लिए ज़िम्मेदार था तथा खलीसा, जागीर और इनाम भूमि पर नियंत्रण रखता था।
b) He was responsible for the security of foreign travellers on the highways of the empire.
वह साम्राज्य के राजमार्गों पर विदेशी यात्रियों की सुरक्षा के लिए जिम्मेदार था।
c) He made recommendations for appointment to Mansabs to the emperor.
वह सम्राट से मनसबदारों की नियुक्ति के लिए सिफारिशें करता था।
d) He collected reports of intelligence and information agencies of the empire and presented them to the emperor at the court.
वह साम्राज्य की खुफिया और सूचना एजेंसियों की रिपोर्ट एकत्र करता था और उन्हें दरबार में सम्राट को प्रस्तुत करता था।